Musikschule

Musikkunde 2

Übungstest
im
Bassschlüssel

Datum: _____

Name: _____

Instrument: _____

1. a. Stelle fest um welche **Dreiklänge** es sich handelt (**Dur oder Moll)!**

Beispiel 1: ☐ Dur ☐ Moll Beispiel 2: ☐ Dur ☐ Moll

2 mögliche Punkte ☐

b. Stelle fest um welches **Intervall** es sich handelt (**Grobbestimmung**)!

Beispiel 1: _____ Beispiel 2: _____

2 mögliche Punkte ☐

c. Notiere den gehörten **Rhythmus**!

Noten- und Pausenauswahl: 𝅝 𝅗𝅥. 𝅗𝅥 ♩ ♪ 𝄻 𝄼 𝄽 𝄾

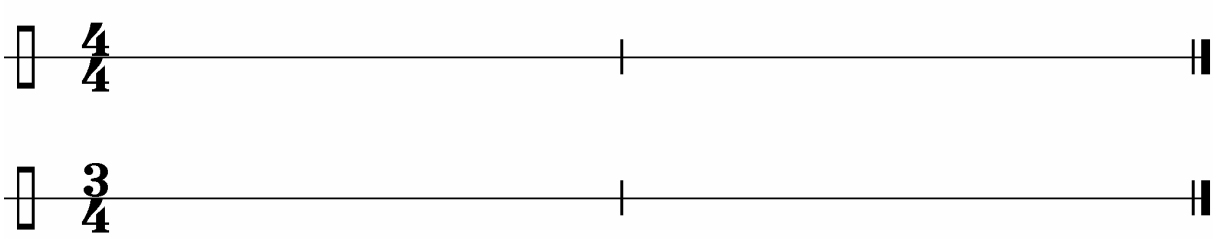

4 mögliche Punkte ☐

---

2. Bestimme die **Namen der Noten** mit **Oktavbezeichnung!**



_____ _____ _____ _____

4 mögliche Punkte ☐

---

3. Schreibe die **melodische b-Molltonleiter** in **Ganzen Noten** auf- und abwärts, die **Vorzeichen** und bezeichne die **Halbtonschritte**!



4 mögliche Punkte ☐

---

4. **Bilde folgende Intervalle** über der angegebenen Note, kehre diese um und benenne das **Komplementärintervall**!



üm Quinte kl Terz üm Septime vm Qarte

8 mögliche Punkte

---

5. Bilde folgende **Dreiklänge in Grundstellung**!



Dur auf des Moll auf h Übermäßig auf ges Vermindert auf a

4 mögliche Punkte

---

6. a. Erkläre folgende Bezeichnungen!

Mordent _____

tenuto _____

stringendo _____

Vivace _____

espressivo _____

D.C.al Fine _____

6 mögliche Punkte

b. Nenne zwei Schlaginstrumente mit bestimmter Tonhöhe!

_____ _____

2 mögliche Punkte

Beurteilungsschlüssel:

36 – 32 Punkte	sehr gut
31 – 27 Punkte	gut
26 – 22 Punkte	befriedigend
21 – 17 Punkte	genügend
16 – 00 Punkte	nicht genügend

Gesamtpunktezahl:

Beurteilung: _____

Unterschrift der korrigierenden Person:

_____